Příjmení: _____ Třída: _____

TEST – Dýchací soustava

1. Vysvětli rozdíl mezi zevním a vnitřním(tzv. buněčným dýchání). Kde jsou oba druhy zajišťovány. _____

_____

_____

_____

2. Do obrázku vyznač základní úseky dýchací soustavy

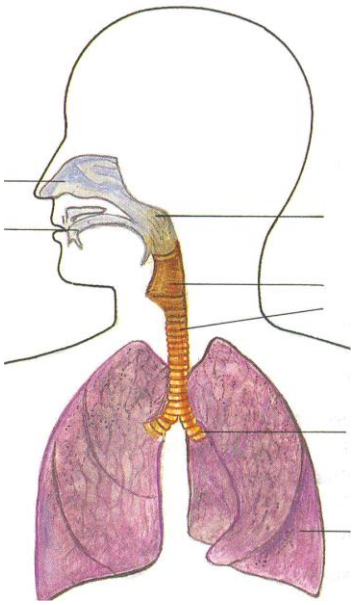

3. Napiš, proč je důležité vdechovat vzduch nosem a ne ústy.

_____

_____

4. Vysvětli, jaký je význam hrtanové příklopky:

_____

_____

5. Popiš jednoduše, jak vzniká tón a ve které další části se utváří do slov.

_____

_____

_____

_____

6. stručně vysvětli, jakou má funkci plicní sklípek

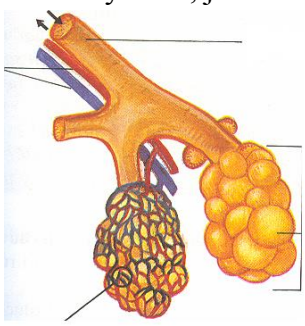

_____
_____
_____
_____

7. Jaké procesy jsou zachyceny na následujícím obrázku _____
(doplň jejich název).

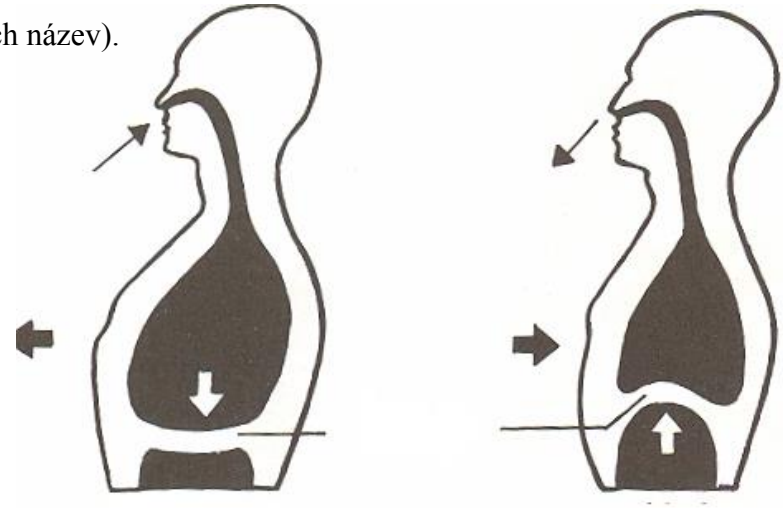

Stručně vysvětli, jak tyto procesy fungují. Jaké svaly se zde uplatňují a jak pracují?

_____
_____
_____
_____
_____

8. Vysvětli pojem „kyslíkový dluh“. Napiš, kdy vzniká a jaký má vliv na člověka.

_____
_____
_____

9. Vysvětli pojem kapénková infekce a navrhni opatření proti jejímu šíření.

_____
_____
_____