11. ŽIVOČICHOVÉ SAVCI

1 Dopiš názvy částí těla kočky domácí.

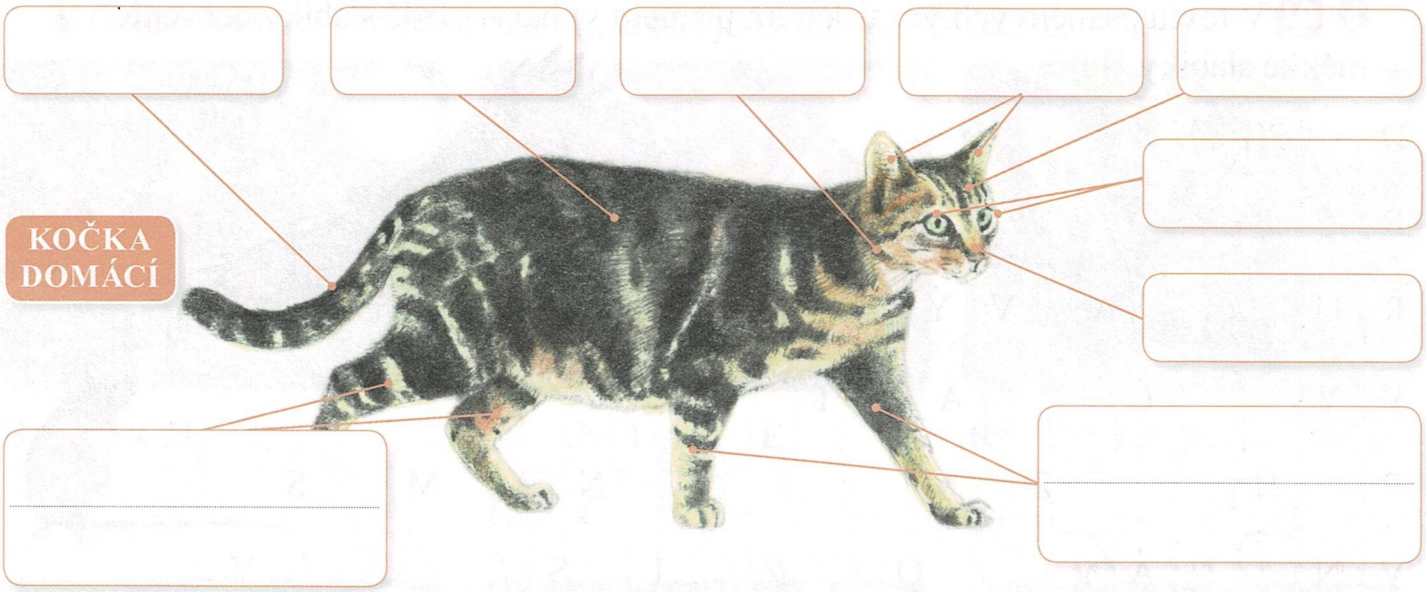

2 Označ barevně savce na obrázcích podle toho, do které skupiny živočichů patří.

BÝLOŽRAVCI MASOŽRAVCI VŠEŽRAVCI

3 Podle způsobu pohybu savců v tabulce označ políčka **X**.

	chůze	běh	šplhání	létání	plavání
velryba grónská					
netopýr velký					
delfín obecný					
vydra říční					
kočka domácí					

4 Najdi a škrtni v každé větě jeden nesmysl a na linku pod textem napiš správné slovo.

Většina savců rodí živá mláďata, která se vyvíjejí v těle otce.

Mláďata po narození sají mateřské mléko, proto se nazývají mléčňáci.

PTÁCI

1 Dopiš názvy částí těla sýkory koňadry.

SÝKORA KOŇADRA



2 Ptáky dělíme do 4 skupin podle druhu potravy. Vybarvi stejnou barvou, co k sobě patří.

hmyzožraví	Živí se semeny a plody.	stehlík, pěnkava
semenožraví	Živí se drobnými živočichy a rostlinami.	vlaštovka, sýkora
draví	Živí se hmyzem.	kachna, straka
všežraví	Živí se drobnými savci.	orel, jestřáb, káně

3 Popiš, jak přicházejí na svět ptačí mláďata.

.....

.....

4 Poznáš, která věta popisuje krmivá a která nekrmivá mláďata? (Dopiš začátek každé věty.)



.....mláďata se rodí holá a slepá, rodiče je krmí.
(např. holub, vlaštovka)

.....mláďata se líhnou opeřená jemným chmýřím, živí se samostatně.
(např. husa, slepice, kachna)

11. ŽIVOČICHOVÉ RYBY

1 Dopiš názvy částí těla cejna velkého.

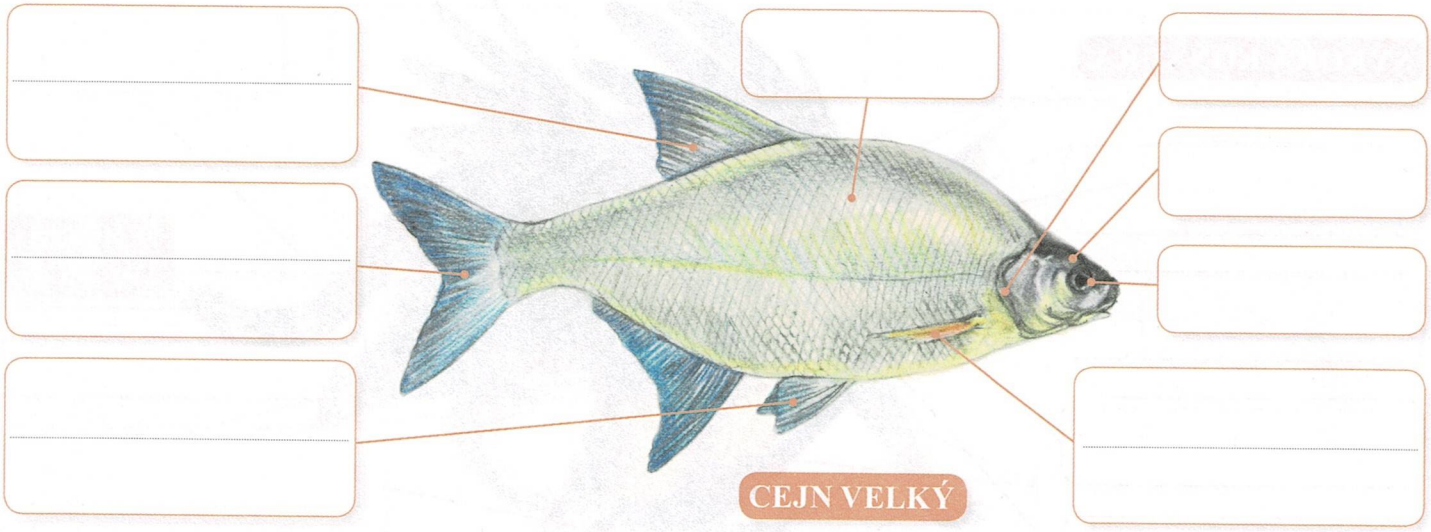

2 Doplň do textu chybějící slova:

Ryby patří mezi O ..... . Jejich dýchacím orgánem jsou ....., které jsou ukryty pod S ..... . Ryby se rozmnožují V ....., která se nazývají ..... . Podle způsobu získávání potravy je dělíme na ..... a ..... .

3 Spoj ryby s prostředím, ve kterém žijí.



PLAZI

1 a Dopiš názvy částí těla zmije obecné.

b Mají hadi páteř složenou z obratlů? (Zakroužkuj správnou odpověď.) ANO – NE



ZMIJE OBECNÁ

UŽOVKA OBOJKOVÁ

Víš, že…

Hadi se jednou za čas svlékají ze své kůže, protože jejich pokožka není pružná a zabraňuje jim v růstu.

2 Čím se liší zmije obecná od užovky obojkové? Porovnej je na obrázcích a dopiš do tabulky:

	ZMIJE OBECNÁ	UŽOVKA OBOJKOVÁ
Tvar hlavy		
Délka a tloušťka těla		
Zbarvení		
Jedovatá?		

3 Škrtni, co není potravou plazů na obrázcích.

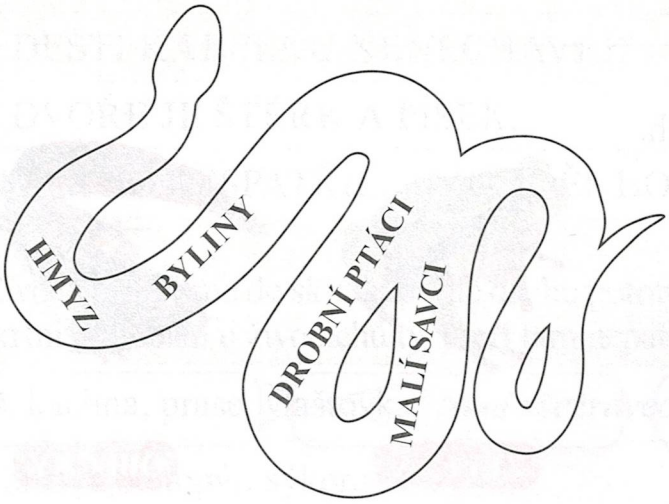



11. ŽIVOČICHOVÉ OBOJŽIVELNÍCI

1 Pojmenuj názvy částí těla skokana skřehotavého.

SKOKAN SKŘEHOTAVÝ

2 Vystřihni obrázky z dolního okraje stránky. Seřaď je a nalep tak, jak jdou stadia vývoje žáby za sebou.

1 2 3 4 5

3 Popiš vývoj žáby vlastními slovy.

4 Dopiš názvy obojživelníků na obrázcích.

SKVRNITÝ

OBECNÁ

ZELENÁ

OBECNÝ

pulec



dospělec

pulec



vajíčko

pulec

JÁ TO HRAVĚ ZVLÁDNU 6

1 **a** Vypiš všechny společné znaky živočichů. **b** Barevně označ znaky, které platí i pro rostliny.

D .....

PŘ .....

VY .....

RŮ .....

RO .....

PO .....

VN .....

RE .....

2

3

4 **a** Najdi a vypiš živočichy ukryté ve větách.

b Napiš, zda patří k savcům, ptákům, plazům či obojživelníkům.

KOUZELNÍK VEDL ŘEČ O LEKTVARECH.	*čolek*	*obojživelník*
MOJE STARŠÍ SESTRA JE LENIVÁ.		
NA DEŠTI KABELKU NENECHÁVEJ!		
NA DVOŘE JE ŠTĚRK A PÍSEK.		
JÁ JSEM HO NESPATŘIL, ALE VIDĚL HO LUBOŠ.		

5 Živočichy dělíme do skupin podle druhu potravy, kterou se živí. Vyškrtni v řádcích u živočichů ty, kteří tam nepatří. Napiš důvod.

myš, kachna, prase, ~~vlaštovka~~	*Není všežravec.*
orel, krtek, netopýr, sýkora	
kráva, zajíc, liška, ovce, srna	
štika, jelen, liška, jestřáb	

SEBEHODNOCENÍ

Jak ti šlo opakování? Vybarvi známku, která odpovídá tvým znalostem:

1 2 3 4 5